**Fișă de lucru**
**Recapitulare: Numerele naturale 0-100**

1. Descompune numerele date în zeci și unități.

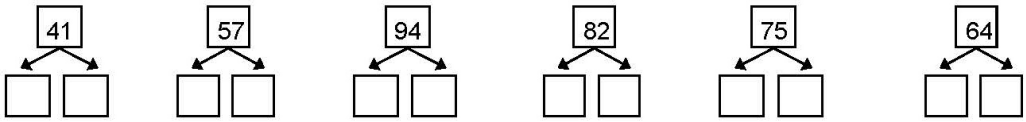


2. Scrie numerele :

a) de la 81 la 86:

b) cuprinse între 93 și 88 :

c) mai mari decât 73 și mai mici ca 80:

3. a) Ordonează crescător numerele:
52, 37, 67, 25, 84, 46;
___, ___, ___, ___, ___, ___,

b) Ordonează descrescător numerele:
56, 69, 48, 84, 29, 75;
___, ___, ___, ___, ___, ___,

4. Compară perechile de numere folosind semnele de relație <, >, = :

67 ☐ 77 21 ☐ 12 86 ☐ 84 59 ☐ 95

56 ☐ 43 98 ☐ 87 54 ☐ 84 34 ☐ 34

5. Completează propozițiile matematice:
a) SUCCESORUL lui 89 este ____.
b) PREDECESORUL lui 80 este ____.
c) RĂSTURNATUL lui 76 este ____.
d) Vecinii numerelor sunt:
_____ 99 _____ _____ 81 _____ _____ 50 _____

6. Colorează, de fiecare dată, doar fulgii de nea pe care sunt scrise numerele ce pot fi rotunjite la numărul scris pe norișor.

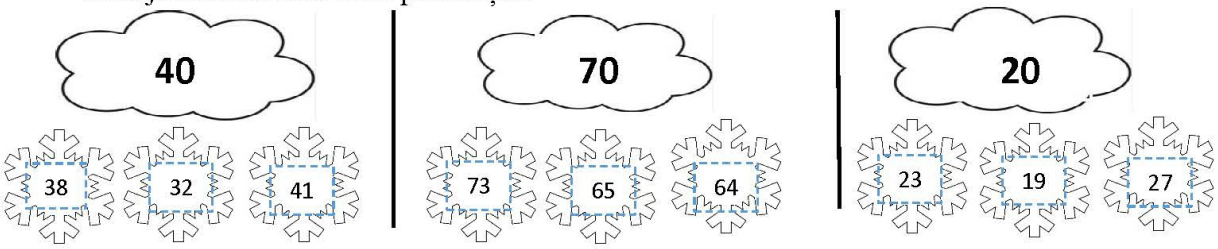

7. *Ajută puișorii să ajungă la cloșcă!*
Scrie numerele lipsă de pe traseu.

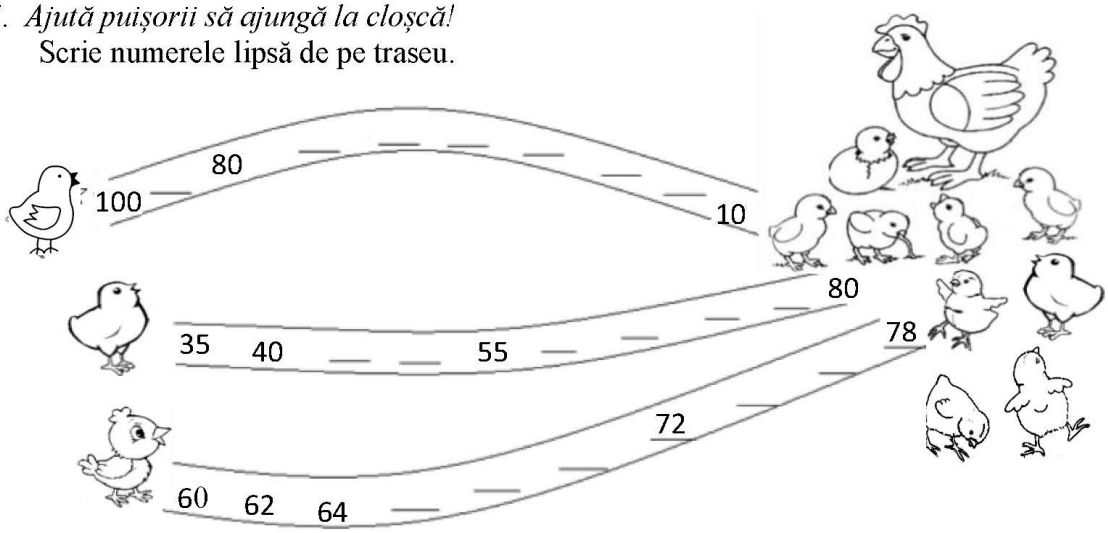


8. Scrie toate numerele care:
   a) au la zeci cifra 6:

| | | | | | | | | | | | | | | | | | | | | | | | | | | | | | | | | | | | |
|---|---|---|---|---|---|---|---|---|---|---|---|---|---|---|---|---|---|---|---|---|---|---|---|---|---|---|---|---|---|---|---|---|---|---|---|

   b) au la unități cifra 9:

| | | | | | | | | | | | | | | | | | | | | | | | | | | | | | | | | | | | |
|---|---|---|---|---|---|---|---|---|---|---|---|---|---|---|---|---|---|---|---|---|---|---|---|---|---|---|---|---|---|---|---|---|---|---|---|
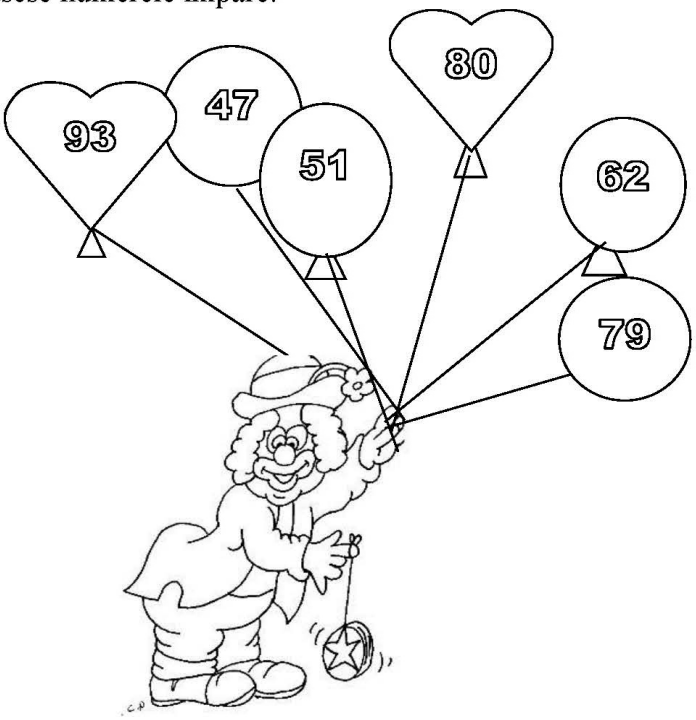
9. Colorează cu verde baloanele în care se găsesc numerele pare, iar cu portocaliu baloanele în care se găsesc numerele impare: